2008학년도 4월 고3 전국연합학력평가 문제지

사회탐구 영역(국사)

제 4 교시 | 성명 | 수험번호 | 3 | 1

- ○ 먼저 수험생이 선택한 과목의 문제지인지 확인하시오.
- ○ 반드시 자신이 선택한 과목의 문제지를 풀어야 합니다.
- ○ 문제지에 성명과 수험 번호를 정확히 기입하시오.
- ○ 답안지에 수험 번호, 선택 과목, 답을 표기할 때에는 반드시 '수험생이 지켜야 할 일'에 따라 표기하시오.
- ○ 문항에 따라 배점이 다르니, 각 물음의 끝에 표시된 배점을 참고하시오. 3점 문항에만 점수가 표시되어 있습니다. 점수 표시가 없는 문항은 모두 2점씩입니다.

1. 그림과 같은 주거지에 살았던 사람들의 생활 모습으로 적절하지 않은 것은?

<집터>

<복원도>

① 가락바퀴로 실을 뽑아 옷이나 그물을 만들었다.
② 빗살무늬 토기를 사용하여 음식을 조리하고 저장하였다.
③ 수십 톤 이상의 덮개돌을 운반하여 무덤을 조성하였다.
④ 혈연을 바탕으로 부족을 구성하고 다른 씨족과 혼인하였다.
⑤ 돌괭이나 나무 농기구로 땅을 일구어 조와 수수 등을 재배하였다.

2. 다음과 관련 있는 국왕이 실시한 정책으로 옳은 것은? [3점]

> ○ 갑오년 이후 조정에 아뢰지 않고 건립한 서원과 사우는 모두 철거하도록 하라. 이후 사사로이 건립하는 경우 수령은 관직을 박탈하고, 유생은 멀리 귀양을 보내도록 하라.
> ○ 임금이 말하기를, "빨리 망한 나라는 늘 가혹한 법으로 말미암았으니, 지금 법전을 편찬하는 자는 이를 생각해야 한다." …(중략)… 친히 속대전의 서문을 쓰고 인쇄를 명하였다.

① 군사 문제를 담당하는 비변사를 설치하였다.
② 환국의 빌미를 제공한 편당적인 인사 관리를 하였다.
③ 유능한 인사를 재교육하는 초계문신 제도를 실시하였다.
④ 규장각에 비서실과 문한 기능을 통합적으로 부여하였다.
⑤ 이조 전랑이 3사의 하급 관리를 선발할 수 있는 관행을 없앴다.

3. 자료를 통해 알 수 있는 사건의 배경으로 옳은 것은?

> **역 사 신 문**
>
> 제○○호 △△△년 ○○월 ○○일
>
> **수도 이전 결정**
>
> 500년 가까이 이어온 한성 시대가 아쉬움 속에서 막을 내렸다. 정부는 어제 금강 유역의 웅진으로 수도를 이전한다고 발표하였다.
>
> 이번에 결정된 수도 이전은 빠른 시일 내에 마무리되어야 하는 사업이다. 많은 어려움이 따르겠지만 국가의 미래가 걸린 만큼 우리 백성들은 힘을 합쳐 이 난관을 헤쳐 나가야 할 것이다.

① 성왕이 관산성을 공격하다가 전사하였다.
② 진흥왕이 한강 유역에 진출하여 순수비를 세웠다.
③ 근초고왕이 마한을 통합하고 남해안까지 진출하였다.
④ 장수왕이 평양으로 천도하고 남하 정책을 추진하였다.
⑤ 광개토 대왕이 신라를 지원하여 백제와 왜의 세력을 물리쳤다.

4. 다음에서 설명하는 문화재로 알맞은 것은?

> 이 불상은 균형과 조화의 미를 보여준 이전의 불상 모습과 분위기가 판이하게 다르며, 토착적이고 지역 특색이 강한 느낌을 준다. 미륵 신앙을 엿볼 수 있는 이 불상은 고려 초기 지방의 미의식을 볼 수 있다.

①

②

③

④

⑤

5. 고대 고분을 주제로 제작한 홈페이지이다. (가) 에 들어갈 내용으로 옳은 것은?

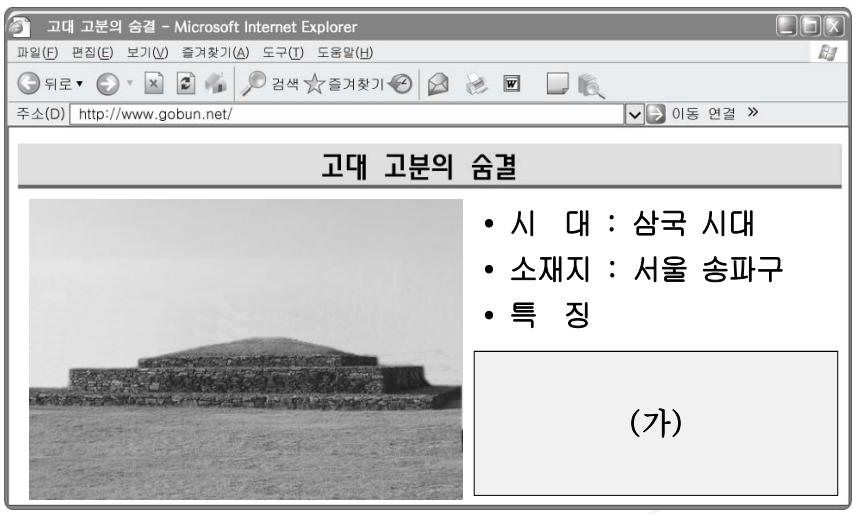

① 중국 남조의 영향을 받아 벽돌을 이용하여 만들었다.
② 당시 사회 모습을 알 수 있는 다양한 벽화가 그려져 있다.
③ 돌무지덧널무덤으로 도굴이 쉽지 않아 원형이 잘 보존되어 있다.
④ 봉토 주위를 둘레돌로 두르고 12지 신상을 조각하여 장식하였다.
⑤ 중국 집안에 있는 돌무지무덤과 형식면에서 유사성을 띠고 있다.

6. 다음 주장의 배경이 된 사건에 대한 탐구 활동으로 적절하지 않은 것은? [3점]

> 윤휴가 상소를 올려, "세상의 의리를 세우는 자는 반드시 세상에 이름이 난다고 하였는데 …(중략)… 짐승 같은 것들이 핍박해와 군신 관계를 요구하여 …(중략)… 지금 오랑캐의 나라가 혼란스러우니 때를 놓치지 말고, 화포와 조총을 곁들여 병사 1만 대(隊)를 뽑아 요하 이북과 심양을 공격하고 천하 사람들에게 명령하기를 청합니다." 라고 하였다.

① 서인의 대외 정책을 조사한다.
② 기유약조의 체결 과정을 분석한다.
③ 수어청과 어영청의 활동 내용을 조사한다.
④ 주전론과 주화론을 주장한 인물을 찾아본다.
⑤ 성리학적 명분론이 조선 사회에 끼친 영향을 살펴본다.

7. (가), (나) 제도의 실시로 나타난 공통적인 현상으로 적절한 것은? [3점]

> (가) 각 도의 공물은 이제 미(米)와 포(布)로 상납한다. 방민(坊民)을 선택하여 공가를 넉넉히 계산해 주어 관청 수요에 미리 준비하게 한다.
> (나) 왕이 말하였다. "양역을 절반으로 줄이라. …(중략)… 호포나 결포는 모두 문제점이 있다. 이제는 1필로 줄일 것이니 경들은 대책을 강구하라."

① 방납의 폐단이 시정되었다.
② 공인이라는 어용 상인이 등장하였다.
③ 호적을 바탕으로 세금이 부과되었다.
④ 토지를 가진 사람의 세금 부담이 증가하였다.
⑤ 일부 상류층은 선무군관이라는 칭호를 받았다.

8. (가), (나) 와 관련된 사건에 대한 설명으로 옳지 않은 것은? [3점]

> (가) 그날 밤 꿈에 한 신인(神人)이 나타나, "나는 초나라 회왕의 손자인데 우리 조부께서 항우에게 죽임을 당하였다." 라고 말하고는 갑자기 사라져 보이지 않았다. …(중략)… 나는 조선 사람이고 천여 년이나 지난 뒤에 태어났지만 삼가 초의 회왕을 슬퍼하노라. …(중략)… 술잔을 들어 땅에 부으면서 조문한다.
> (나) 남곤은 나뭇잎의 감즙(甘汁)을 갉아 먹는 벌레를 잡아 모으고 꿀로 나뭇잎에다 '주초위왕(走肖爲王)' 네 글자를 쓰고서 벌레를 놓아 갉아 먹게 하였다. …(중략)… 중종에게 보여 화(禍)를 조성하였다.

① (가) – 사초의 내용이 문제가 되었다.
② (가) – 일당 전제화 현상이 강화되었다.
③ (나) – 공신들의 위훈 삭제 문제로 인해 일어났다.
④ (나) – 조광조를 비롯한 많은 사람들이 탄압을 받았다.
⑤ (가), (나) – 훈구와 사림 세력 간의 대립으로 일어났다.

9. 다음 수업 장면을 통해 알 수 있는 국가에 대한 설명으로 옳은 것은?



① 중대한 범죄자는 제가 회의를 통하여 처벌하였다.
② 5부족 연맹체로 가축의 이름을 딴 관리들이 있었다.
③ 제정이 분리되어 천군이 주관하는 소도가 존재하였다.
④ 가족 공동 무덤에 뼈만 추려 안치하는 장례 풍속이 있었다.
⑤ 다른 부족의 생활권을 침범하면 노비와 소, 말 등으로 변상하였다.

10. 그림의 대화를 통해 알 수 있는 시기의 사회 모습에 대한 설명으로 옳은 것은?

① 최충헌의 사노비인 만적이 난을 일으켰다.
② 황해도와 경기도 일대에서 임꺽정이 출현하였다.
③ 홍건적과 왜구의 침입으로 백성들의 생활이 어려웠다.
④ 홍경래의 지휘 하에 영세 농민, 중소 상인 등이 봉기하였다.
⑤ 원종과 애노의 난을 계기로 농민 항쟁이 전국적으로 확산되었다.

11. 다음 사건이 일어난 시기를 연표에서 옳게 찾은 것은?

> 이들이 글을 올려 말하기를, "서경에 궁궐을 세워 옮기고, 위로는 천심에 응하고 아래로는 백성들의 바람에 따르시어 금나라를 타도하소서." 라고 하였다. …(중략)… 서경을 거점으로 난을 일으키고 왕의 명령이라 속여 여러 성의 수령을 체포해서 창고에 가두었다. 그리고 국호를 대위라 하고, 연호를 천개라 하며, 군대의 칭호를 천견충의군이라 하여 난을 일으켰다.
>
> – 고려사 –

① (가) ② (나) ③ (다) ④ (라) ⑤ (마)

12. 다음은 신라 어느 시기의 세력을 알아보기 위해 설정한 모둠별 탐구 제목이다. 이 세력에 대한 옳은 설명을 <보기>에서 고른 것은? [3점]

> 1모둠 : 군진 세력의 성장과 동향
> 2모둠 : 9산 선문의 성립과 그 후원 세력
> 3모둠 : 권력 투쟁에서 밀려 낙향한 인물들의 정치 성향
> 4모둠 : 대외 무역을 바탕으로 성장한 해상 세력의 분포 지역

〈 보 기 〉

ㄱ. 6두품의 일부와 연계하여 사회 개혁을 추구하였다.
ㄴ. 근거지에 성을 쌓고 행정권과 군사권을 장악하였다.
ㄷ. 9주와 5소경 등 지방 관청의 장관을 독점하고 있었다.
ㄹ. 전제 왕권과 결탁하고 왕의 정치적 조언자로 활동하였다.

① ㄱ, ㄴ ② ㄱ, ㄷ ③ ㄴ, ㄷ
④ ㄴ, ㄹ ⑤ ㄷ, ㄹ

13. 다음과 같은 상황이 발생한 배경으로 가장 적절한 것은?

> 다른 사람을 사서 군역을 대신하게 하는 대립(代立)이 불법적으로 행해졌으며, 군역에 복무해야 할 사람에게 포를 받고 군역을 면제해 주는 방군수포(放軍收布)도 유행하였다. 이것은 군사들의 편의를 위한 점도 있었으나, 점차 지휘관의 사적인 축재 수단으로 변질되어 갔다.

① 요역의 기피로 군역이 요역화되는 현상이 일어났다.
② 속오법이 실시되어 지방군의 방어 체제가 변화되었다.
③ 양난으로 농경지가 황폐해지고 전세 제도가 문란해졌다.
④ 수령이 향약을 주관하면서 향리들의 수탈이 심화되었다.
⑤ 납속이나 공명첩으로 양반이 되어 면역하는 자가 늘어났다.

14. 그림은 어느 시대 향촌 사회의 지배 구조를 도식화한 것이다. (가) 의 기능으로 옳은 것은? [3점]

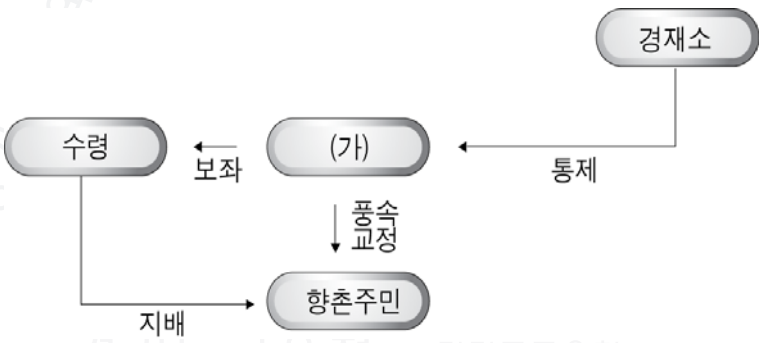

① 향리의 부정과 비리를 감찰하였다.
② 부호장을 임명하고 행정을 총괄하였다.
③ 환곡제를 실시하여 농민을 구제하였다.
④ 노비 소송과 산송 문제의 재판을 담당하였다.
⑤ 지방 관청에 소속되어 조세와 공물을 징수하였다.

15. 다음은 어느 시기 농민이 쓴 가상의 영농 일지이다. ㉠ ~ ㉤ 중 역사적 사실로 옳지 않은 것은? [3점]

> △△△△년
> ○ 3월 ○일 : 몽골과의 전쟁이 끝났다고 하니 이제는 농사를 제대로 지을 수 있을 것 같다.
> ○ 4월 ○일 : ㉠지력이 좋아진다고 해서 소를 빌려 땅을 깊이 갈아 엎었다.
> ○ 5월 ○일 : ㉡금양잡록을 읽은 관리가 수확량을 늘리는 방법을 알려 주었다.
> ○ 6월 ○일 : 작년 가을에 ㉢조를 수확한 밭에 보리를 심어 거둔 후 콩을 심었다.
> ○ 8월 ○일 : 덧거름의 효과가 없어서 ㉣소의 똥 오줌을 풀과 갈대에 섞어서 거름을 만들어 사용했다.
> ○ 10월 ○일 : ㉤사원이 소유한 땅을 빌려서 농사를 지었는데 벼의 수확량이 작년만 못하다.

① ㉠ ② ㉡ ③ ㉢ ④ ㉣ ⑤ ㉤

16. 다음과 같은 맥락에서 실시한 정책으로 옳은 것은?

> 예조에서 아뢰기를, "양반의 자제로서 승려가 되기를 원하는 자는 부모 · 친족이 사유를 적어서 승록사(僧錄司)에 알리고, 승록사는 예조에 보고하여 …(중략)… 오승포 1백 필(匹)을 징수하고 도첩(度牒)을 주어야 비로소 출가하는 것을 허락하고, 그 외에 역(役)이 있는 장정과 독자 · 처녀는 일체 금지하소서." 하였다.

① 국사와 왕사 제도를 실시하였다.
② 보우를 등용하고 승과를 실시하였다.
③ 소격서를 설치하여 초제를 거행하였다.
④ 석보상절을 편찬하고 간경도감을 설치하였다.
⑤ 선종과 교종 종파에 모두 36개 사원을 인정하였다.

17. 지도와 같은 형세를 이루었던 시기에 (가) ~ (다) 국가에서 볼 수 있었던 생활 모습으로 적절하지 않은 것은? [3점]

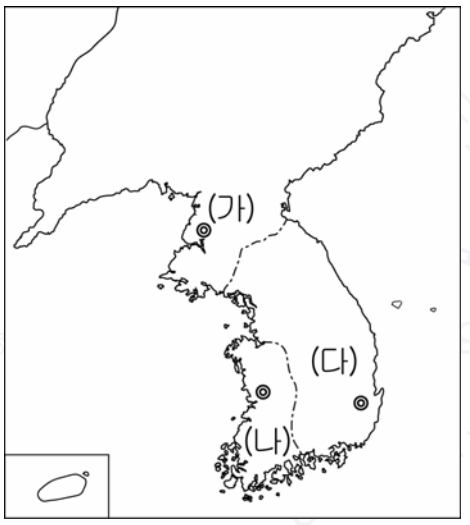

① (가) – 관청에서 곡식을 빌리고 있는 백성
② (가) – 국가가 지급한 정전에서 보리를 수확하는 농민
③ (나) – 사비성을 수리하는 데 동원되고 있는 농민
④ (다) – 당항성에서 중국산 비단을 운반하고 있는 선원
⑤ (다) – 수도에 설치된 동시에서 물건을 판매하고 있는 상인

18. 다음 주장이 제기된 시기의 천문학에 대한 설명으로 옳은 것은? [3점]

> 천체가 운행하는 것이나 지구가 자전하는 것은 그 세가 동일하다. 9만 리의 둘레를 한 바퀴 도는 데 이처럼 빠르며, 저 별들과 지구와의 거리는 겨우 반경(半徑)밖에 되지 않는데도 몇 천만 억의 별들이 있는지 알 수 없다. 하물며 천체들이 서로 의존하고 상호 작용하면서 이루고 있는 우주 공간의 세계 밖에도 또 다른 별들이 있다. …(중략)… 칠정(七政:태양, 달, 화성, 수성, 목성, 금성, 토성)이 수레바퀴처럼 자전함과 동시에, 맷돌을 돌리는 나귀처럼 둘러싸고 있다.

① 선명력을 대신하여 수시력을 채용하였다.
② 천상열차분야지도를 처음으로 만들어 돌에 새겼다.
③ 지구가 우주의 중심이 아니라는 무한 우주론이 제기되었다.
④ 사천대를 설치하여 일식, 혜성, 태양 흑점 등을 관찰하였다.
⑤ 한양을 기준으로 천체 운동을 계산하는 역법이 편찬되었다.

19. 다음과 같은 문화재가 유행하였던 시기의 정치 상황으로 옳은 것은? [3점]

[제작 과정]

태토를 반죽하여 모양을 제작
↓
문양을 음각한 부분에 태토와 다른 색을 띠는 안료를 바름
↓
마른 후 음각된 부분을 제외한 나머지 부분의 안료 제거
↓
초벌구이 후 유약을 입혀 재벌구이

① 청천강에서 영흥만에 이르는 영토를 확보하였다.
② 주요 지역에 12목을 설치하고 지방관을 파견하였다.
③ 최고 집정부의 구실을 하는 교정도감이 설치되었다.
④ 명의 철령위 설치 요구에 맞서 요동 정벌을 단행하였다.
⑤ 신진 사대부의 등장을 억제하고 있던 정방이 폐지되었다.

20. 다음을 통해 알 수 있는 항일 민족 운동의 영향으로 옳은 것은?

<검거된 자의 신분 구성>

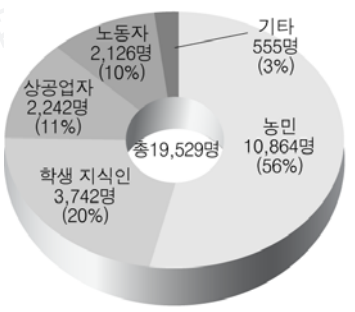

<발생 시기와 참가 인원>



① 일제는 식민 통치를 위해 조선 총독부를 설치하였다.
② 일제는 성과 이름까지 일본식으로 고쳐 쓰도록 강요하였다.
③ 일제는 징용제와 학도 지원병제를 실시하여 전쟁에 동원하였다.
④ 민족주의 세력과 사회주의 세력이 연합한 신간회가 조직되었다.
⑤ 민족 운동을 체계적으로 추진하기 위해 임시 정부가 수립되었다.

※ 확인사항
○ 문제지와 답안지의 해당란을 정확히 기입(표기)했는지 확인하시오.